

Mi Aula Mágica



Multiplicaciones Mágicas

Primer Grado · Agrupo de 2 en 2

Observo, cuento grupos y descubro la multiplicación.

Nombre: _____ **Grado:** _____ **Fecha:** _____

1 Actividad 1: Observo los grupos de 2 en 2 y completo.

2 grupos de 2



2 x 2 = ☐

3 grupos de 2



3 x 2 = ☐

4 grupos de 2



4 x 2 = ☐

2 Actividad 2: Une cada grupo con su multiplicación correcta.



- 3 x 2 = 6
- 2 x 2 = 4
- 4 x 2 = 8

3 Actividad 3: Colorea la respuesta correcta.

2 x 2



3 x 2



Mi Aula Mágica
Aprender, enseñar y crecer todos los







Mi Aula Mágica



Multiplicaciones Mágicas

Primer Grado · Multiplico con grupos de 3

Cuento grupos iguales y descubro la multiplicación.

Nombre: _____ Grado: _____ Fecha: _____

1 Actividad 1: Observa los grupos de 3 y completa.

2 grupos de 3



2 x 3 = ☐

3 grupos de 3



3 x 3 = ☐

4 grupos de 3



4 x 3 = ☐

2 Actividad 2: Relaciona cada suma repetida con su multiplicación correcta.

3 + 3	2 x 3
3 + 3 + 3	3 x 3
3 + 3 + 3 + 3	4 x 3



3 Actividad 3: Colorea la respuesta correcta.

2 x 3 → 5 6 7

4 x 3 → 10 12 14









Mi Aula Mágica





Multiplicaciones Mágicas

Primer Grado · Multiplico con 2 y 3

Observo, uno y completo mis multiplicaciones.

Nombre: _____ Grado: _____ Fecha: _____

1 Actividad 1: Observo los grupos y completo las multiplicaciones.

2 grupos de 2



2 x 2 = ☐

3 grupos de 2



3 x 2 = ☐

2 grupos de 3



2 x 3 = ☐

3 grupos de 3



3 x 3 = ☐

2 Actividad 2: Une cada grupo con su multiplicación correcta.



- 2 x 3 = 6
- 3 x 2 = 6
- 3 x 3 = 9

3 Actividad 3: Leo los problemas y marco la respuesta correcta.

Hay 3 cajas con 2 lápices cada una.



3 | 5 | 6 | 9

Hay 2 canastas con 3 flores cada una.



2 | 5 | 6 | 8

Mi Aula Mágica
Aprender, enseñar y

Mi Aula Mágica

Multiplicaciones Mágicas

⭐ Primer Grado · Descubro la multiplicación ⭐

⭐ Paso de la suma repetida a la multiplicación.

Nombre: _____ **Grado:** _____ **Fecha:** _____

1 Actividad 1: Convierte cada suma repetida en una multiplicación.



2 + 2 = ☐ → 2 x 2 = ☐



3 + 3 = ☐ → 2 x 3 = ☐



3 + 3 + 3 = ☐ → 3 x 3 = ☐

2 Actividad 2: Completa la tabla.



Tabla del 2	
2 x 1 =	☐
2 x 2 =	☐
2 x 3 =	☐

Tabla del 3	
3 x 1 =	☐
3 x 2 =	☐
3 x 3 =	☐



3 Actividad 3: Encierra la respuesta correcta.



2 x 2 = ?

2 3 4

3 x 2 = ?

5 6 7

3 x 3 = ?

6 8 9





Mi Aula Mágica



Multiplicaciones Mágicas

Primer Grado · Gran repaso

Repaso lo aprendido con 2 y 3.

Nombre: _____ Grado: _____ Fecha: _____

1 Resuelve las multiplicaciones.

2 x 2 = ☐	3 x 2 = ☐
2 x 3 = ☐	3 x 3 = ☐

2 Une cada multiplicación con su resultado.

2 x 2	6
3 x 2	4
2 x 4	9
3 x 3	8

3 Colorea la respuesta correcta.

2 x 3 = 5 6 7

3 x 3 = 6 8 9

4 Mini reto: Cuenta los grupos y escribe la multiplicación.

☐ x ☐ = ☐

☐ x ☐ = ☐

Mi Aula Mágica
Aprender, enseñar y crear todos los días







Mi Aula Mágica



Multiplicaciones Mágicas

Segundo Grado · Multiplico con 4

Observo grupos de 4 y resuelvo.

Nombre: _____ **Grado:** _____ **Fecha:** _____

1 Actividad 1: Cuenta los grupos de 4 y escribe el resultado.



2 x 4 = ☐



3 x 4 = ☐



4 x 4 = ☐

2 Actividad 2: Une cada arreglo o grupo con su multiplicación correcta.



- 4 x 3 = 12
- 4 x 4 = 16
- 4 x 2 = 8

3 Actividad 3: Completa la tabla del 4.

4 x 1	4 x 2	4 x 3	4 x 4	4 x 5
4	8			

Mi Aula Mágica
Aprender, enseñar y
todos los



Mi Aula Mágica



Multiplicaciones Mágicas

Segundo Grado · Multiplico con 5

Cuento de 5 en 5 y multiplico.

Nombre: _____ **Grado:** _____ **Fecha:** _____

1 Actividad 1: Observa los grupos de 5 y completa.

2 grupos de 5



2 x 5 = ☐

3 grupos de 5



3 x 5 = ☐

4 grupos de 5



4 x 5 = ☐

2 Actividad 2: Une cada grupo de 5 con su multiplicación correcta.



- 3 x 5 = 15
- 2 x 5 = 10
- 4 x 5 = 20

3 Actividad 3:

A) Completa la mini tabla del 5.

x 5	1	2	3	4	5	6	7	8	9	10
=	5									

B) Marca la opción correcta.

1. ¿Cuál es el resultado de 5 x 7?
   a) 30 b) 35 c) 40
2. ¿Cuál es el resultado de 5 x 9?
   a) 40 b) 45 c) 50



Mi Aula Mágica



Multiplicaciones Mágicas

Segundo Grado · Multiplico con 10

Descubro que multiplicar por 10 es muy fácil.

Nombre: _____ **Grado:** _____ **Fecha:** _____

1 Actividad 1: Observa los grupos de 10 y completa.

2 grupos de 10 lápices



2 x 10 = ☐

3 grupos de 10 balones

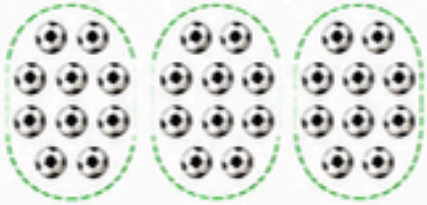

3 x 10 = ☐

4 grupos de 10 estrellas



4 x 10 = ☐

2 Actividad 2: Completa la tabla del 10.

10 x 1	10 x 2	10 x 3	10 x 4	10 x 5
= ☐	= ☐	= ☐	= ☐	= ☐

3 Actividad 3: Escribe el número que falta.

☐ x 10 = 20

☐ x 10 = 30

4 x 10 = ☐



10 20 30





Mi Aula Mágica



Multiplicaciones Mágicas

Segundo Grado · Problemas y arreglos

Resuelvo multiplicaciones en situaciones reales.

Nombre: _____ **Grado:** _____ **Fecha:** _____

1 Actividad 1: Observa los arreglos (matrices) y escribe la multiplicación y el resultado.

a.



☐ x ☐ = ☐

b.



☐ x ☐ = ☐

c.



☐ x ☐ = ☐

2 Actividad 2: Lee los problemas, observa las imágenes y escribe la multiplicación y el resultado.

a. Hay 4 cajas con 3 lápices cada una.



☐ x ☐ = ☐

b. Hay 5 platos con 2 galletas cada uno.



☐ x ☐ = ☐

3 Actividad 3: Colorea la respuesta correcta.

a. 3 x 4 + 2 x 5 = ?

12 | 22 | 17 | 26

b. 2 x 5 + 3 x 3 = ?

19 | 16 | 25 | 13







Mi Aula Mágica



Multiplicaciones Mágicas

Segundo Grado · Gran reto final



Demuestro todo lo que aprendí.

Nombre: _____ Grado: _____ Fecha: _____

1 Une cada multiplicación con su resultado.

2 x 4	10
3 x 5	20
4 x 2	8
2 x 10	15

2 Colorea la respuesta correcta.

2 x 6 + 3 = ?	9	12	15
3 x 4 − 2 = ?	10	12	14

3 Encierra la multiplicación que da el resultado indicado.

Que da 12

2 x 6 | 3 x 4 | 4 x 3 | 2 x 7

Que da 20

2 x 8 | 4 x 5 | 5 x 4 | 3 x 7

4 Completa los espacios faltantes.

□ x 5 = 15 | 4 x □ = 16 | □ x 10 = 20 | 3 x 4 = □



¡Soy campeón de las multiplicaciones!

